FIŞA 1

1 Alcătuiește grupe de câte trei ghiozdane. Câte grupe ai format? Câte ghiozdane mai rămân?

Am format ☐ grupe. Mai rămân ☐ ghiozdane.

2 Observă cu atenție imaginile, apoi desenează ce urmează în fiecare șir.

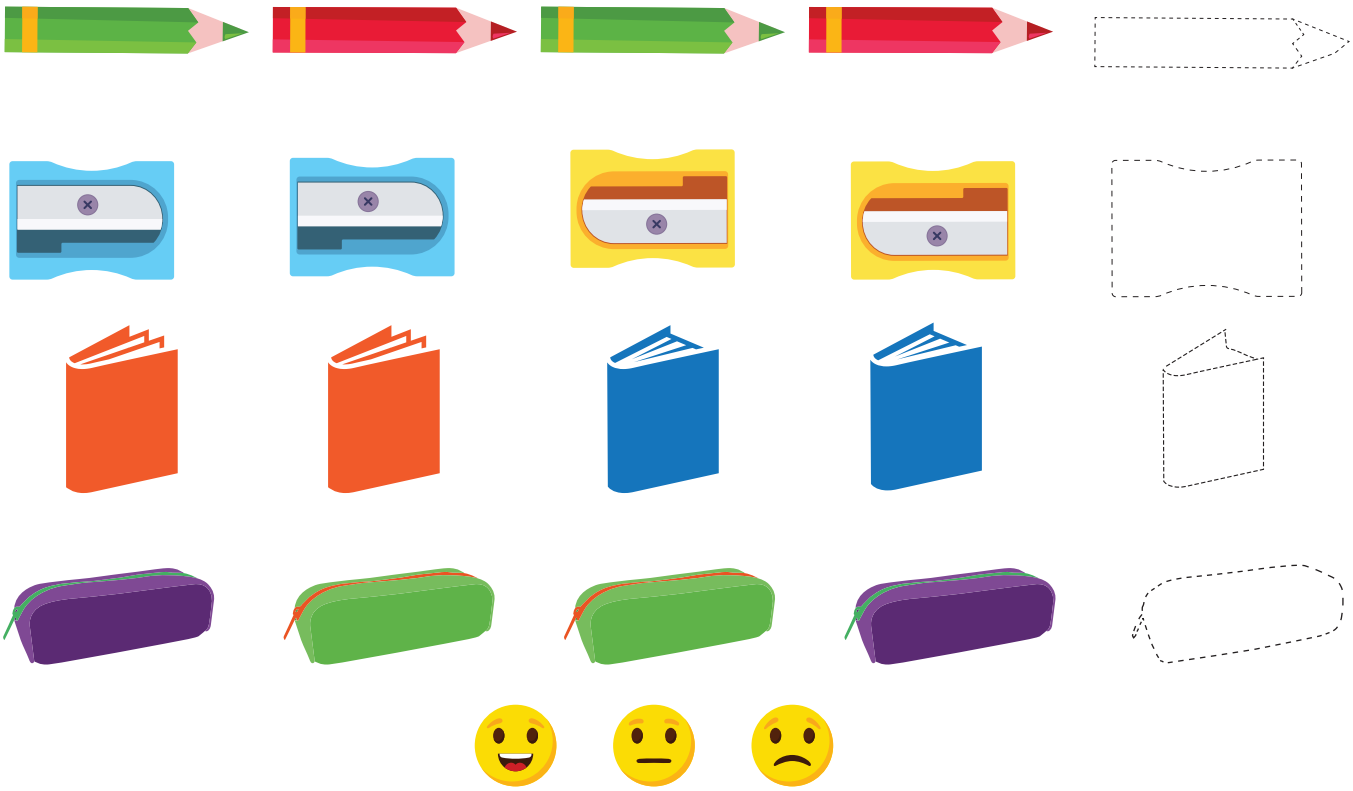

FIŞA 2

1 Încercuiește obiectele care se află în camera ta.

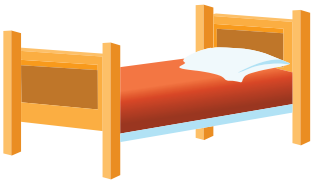



2 Desenează în fiecare ghiveci câte o floare şi completează în casetă numărul lor.



FIŞA 3

1 Încercuiește răspunsul corect.

Mirosim cu ajutorul...

a. ochilor

b. nasului

Ce miroase frumos?

a. buchetul de flori

b. gunoiul

Simțim gustul cu ajutorul…

a. mâinilor

b. limbii

… are gust dulce.

a. o lămâie

b. o prăjitură

2 Ce gust are fiecare aliment? Bifează în tabel căsuţa potrivită.

	AMAR	DULCE	SĂRAT	ACRU
Lămâie				
Covrig				
Dulceaţă				
Cafea				

©EDITURA PARALELA 45

FIŞA 4

1 Efectuează calculele, apoi colorează desenul respectând codul de culoare.



2 Unește punctele de la 1 la 25. Ce ai descoperit? Colorează desenul.



FIŞA 5

1 Alcătuiește grupe de câte cinci pere. Câte grupe ai format? Câte pere mai rămân?



Am format ☐ grupe. Mai rămân ☐ pere.

2 Desenează mere astfel încât numărul lor să fie egal în fiecare coș.



FIŞA 6

1 Care Moş Crăciun e diferit de toţi ceilalţi? Încercuieşte-l.



2 Câte căciuliţe sunt în imagine? Uneşte fiecare grupă de căciuliţe cu zarul potrivit.





FIŞA 7

1 Ajută iepurașul să ajungă la prietena lui. Urmează numerele de la 1 la 10, de la cel mai mic la cel mai mare.

	1	2	3	13
15	12	18	4	17
13	11	6	5	14
16	19	7	20	16
11	15	8	9	10



2 Colorează animalul cel mai mic.





©EDITURA PARALELA 45

FIŞA 8

1 În parcare sunt 7 maşini. 3 dintre ele pleacă. Câte maşini mai rămân?
Mai târziu, în parcare sosesc 5 maşini. Câte maşini sunt acum în parcare? Desenează-le.

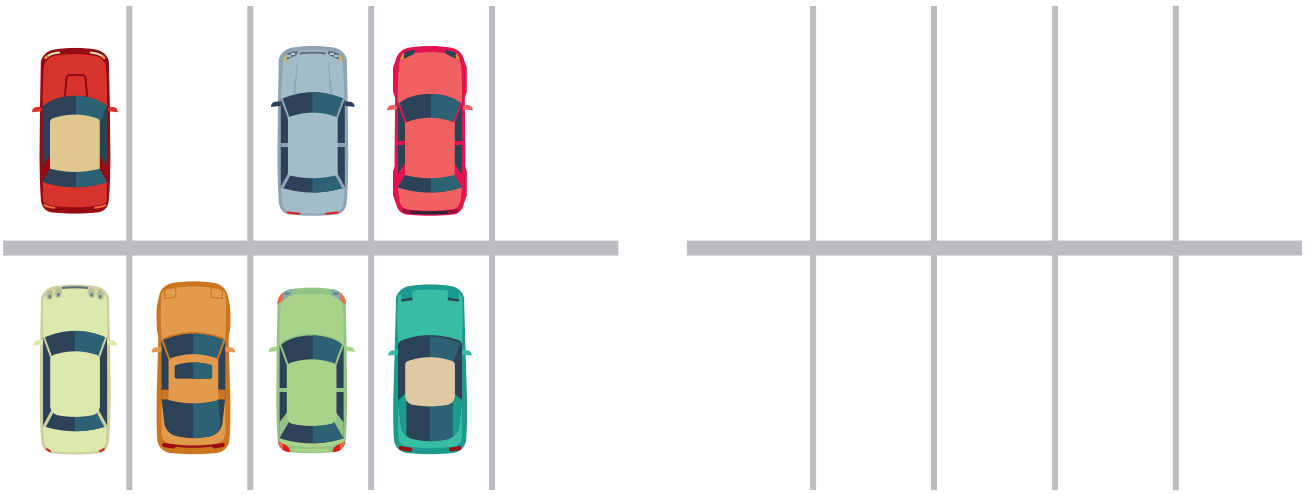

2 Încercuieşte maşinile care se deplasează spre stânga. Marchează cu **X** maşinile care se deplasează spre dreapta.



FIŞA 9

1 Care este umbra corectă a iepurașului? Încercuiește-o.





2 Completează acest sudoku, știind că desenele pot să apară o singură dată pe fiecare rând, coloană și în fiecare dreptunghi mic.

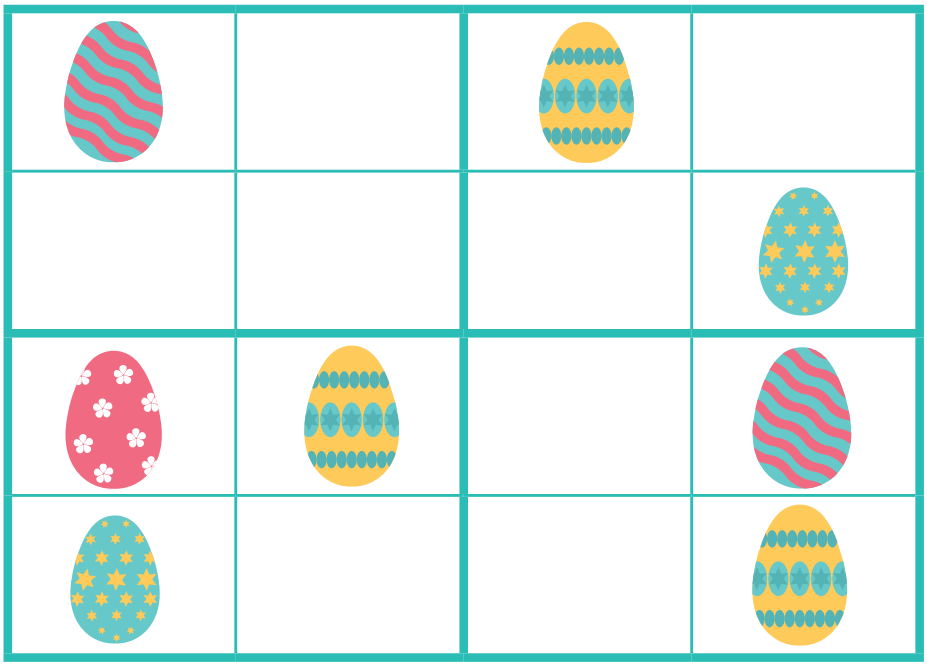

FIŞA 10

1 Câți fluturași sunt în total? Efectuează operația de adunare în căsuțele de mai jos.



2 Care gărgăriță are zece puncte? Încercuiește imaginea potrivită.



3 Colorează în fiecare șir bulina cu răspunsul corect.

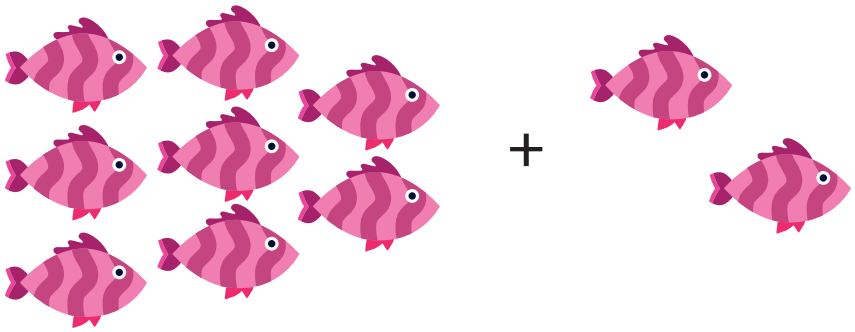

= 8 10 14



= 9 14 6



= 14 16 13